CUADERNILLO DE ACTIVIDADES

Sexto grado

Semana 1

Esmeralda Te Enseña

Estudiante:

Grupo: Ciclo Escolar:



¡ENCUENTRA MÁS MATERIAL EDUCATIVO EN NUESTRAS REDES SOCIALES!

Suscríbete a nuestros canales en YouTube:

ESMERALDA TE ENSEÑA

https://www.youtube.com/@EsmeraldaTeEnsena

ESMERALDA TE CUENTA UN CUENTO

https://www.youtube.com/@Esmeraldatecuentauncuento

ESMERALDA TE ENSEÑA HISTORIA

https://www.youtube.com/@EsmeraldaTeEnsenaHistoria

Síguenos en:

FACEBOOK

https://www.facebook.com/EsmeraldaTeEnsena

TIKTOK

https://www.tiktok.com/@profesora_esmeralda

INSTAGRAM

https://www.instagram.com/Profesora_Esmeralda/

ANEXO #1

Contenido: El Artículo de Divulgación y el Tríptico

Recurso a utilizar para resolver la presente guía:
https://youtu.be/EV2MpOHjBmw



Une con una línea las siguientes características de un artículo de divulgación y en que consiste cada una:

Objetividad	*Autores Expertos*	*Formatos Variados*

Los artículos de divulgación no necesariamente son escritos por personalidades destacadas, pueden ser periodistas o escritores expertos en el tema a desarrollar.	*Los artículos de divulgación se pueden presentar, por ejemplo, en una revista, en sitios de Internet, en videos online, en folletos, revistas de distribución gratuita o libros que compilen artículos o ensayos de divulgación.*	*Deben brindar información de manera neutral para que el lector pueda formarse una opinión propia.*

Escribe tres características de los artículos de divulgación:

Escribe los 3 principales artículos de divulgación mencionados:

Escribe un ejemplo de artículo de divulgación:



ANEXO #2

Contenido: El Área del Triángulo, Cuadrado y Rectángulo

Recurso a utilizar para resolver la presente guía:
https://youtu.be/2WhZUvq_XPQ

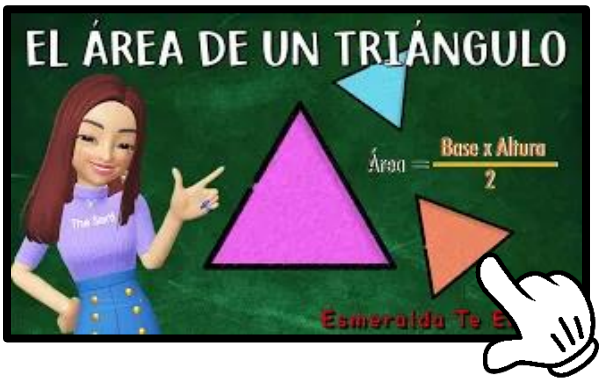

Completa los espacios en blanco con las palabras escuchadas en el vídeo:

Un triángulo es una figura geométrica _____ compuesta por tres _____ o lados, _____ vértices y tres _____, pero no tienen por qué ser _____ entre ellos, es decir, pueden ser triángulos de _____, ya que los lados pueden tener distinta _____ o los ángulos distinta _____.

El área de un triángulo es el _____ delimitado por sus tres _____. Puede calcularse sabiendo su _____ y su _____.

Responde según lo aprendido en el vídeo:

¿Cuál es la fórmula para calcular el área de un triángulo?	*¿En qué unidades de longitud se mide el área de un triángulo?*

Según lo explicado en el vídeo, resuelve los siguientes problemas y haz un dibujo alusivo:

¿Cuál es el área de un triángulo que tiene una base de 8 m y una altura de 10 m?	
Un triángulo tiene una base de 16 m y una altura de 10 m. ¿Cuál es su área?	
Encuentra el área de un triángulo cuya base mide 15 cm y su altura 9 cm.	

ANEXO #3

Contenido: Las vitaminas y su importancia para la salud.

Recurso a utilizar para resolver la presente guía:
https://youtu.be/CvUmUyFAuUI



Responde según lo aprendido:

¿Qué son las vitaminas liposolubles?	*¿Qué son las vitaminas hidrosolubles?*



"La mayor cantidad de alimentos aportan vitaminas algunas se encuentran en los alimentos según su color"

Escribe que vitaminas aportan los alimentos de color:

Verde	
Rojo	
Amarillo y naranja	
Azul o morado	
Blanco	

ANEXO #4

Contenido: Reconociendo y Manejando Nuestras Emociones

Recurso a utilizar para resolver la presente guía:
https://youtu.be/3_wJhrfcmT4



Observa el vídeo y responde según lo aprendido:



Las emociones básicas o primarias aparecen durante el desarrollo natural de cualquier persona.

¿Cuál es el propósito de las emociones?

¿Para qué sirven las emociones básicas?

Escribe la descripción de las siguientes emociones:

Alegría:	Asco:	Sorpresa:

Escribe en cada nube una de las principales características de las emociones básicas en el ser humano:



Dibuja dos emociones que representen las emociones primarias y secundarias:

Emociones primarias		
Emociones secundarias		

ANEXO #5

Contenido: El Área del Triángulo, Cuadrado y Rectángulo

Recurso a utilizar para resolver la presente guía:
https://youtu.be/rQ4LbNsvWy4



Observa el vídeo y sigue las siguientes indicaciones:

Completa los espacios en blanco:

El cuadrado es un _____ regular, que tiene los cuatro lados de _____ _____ y los cuatro _____ que también son _____. Los ángulos del cuadrado son rectos o iguales a _____ _____.

Responde:

¿Qué es el área?

_____

_____

_____

_____

¿En qué unidades se mide el área?

_____

_____

_____

Escribe en el recuadro la fórmula para calcular el área de un cuadrado:

Resuelve el ejercicio mostrado en el video:

Encuentra el área de una piscina cuadrada cuyos lados miden 15 m

ANEXO #6

Contenido: El derecho a la identidad

Recurso a utilizar para resolver la presente guía:
https://youtu.be/80YPDHhXFZ4



Observa el vídeo y con ayuda, colorea el recuadro de verde si la afirmación es verdadera o de rojo si es falsa:

Un derecho es algo especial que todos tenemos solo por ser personas.	
Todos, sin importar nuestra edad, tenemos el derecho de tener un nombre y un apellido.	
Solo los adultos tienen una identidad.	
La identidad incluye cosas que tenemos desde que nacemos, como nuestro nombre, apellido, fecha de nacimiento, si somo niño o niña, de qué país somos y estar en un registro especial donde se anotan todas estas cosas.	

ANEXO #7

Contenido: El Artículo de Divulgación y el Tríptico

Recurso a utilizar para resolver la presente guía:
https://youtu.be/PQDTV2KZDnE



Observa el vídeo y responde las siguientes preguntas según lo aprendido:



Se le llama tríptico al documento o folleto de forma impresa que se utiliza para promocionar alguna información que una persona u organización quiere dar a conocer.

¿Cuáles son las tres partes en las que se dividen los trípticos?

¿Cuál es el objetivo de el tríptico publicitario?

¿Para qué sirve el tríptico informativo?

¿Para qué sirve el tríptico artístico?

ANEXO #8

Contenido: El Área del Triángulo, Cuadrado y Rectángulo

Recurso a utilizar para resolver la presente guía:
https://youtu.be/8TAD9xsdzBM



Completa los espacios en blanco con las palabras escuchadas en el vídeo:

Un rectángulo es una figura _____ con cuatro lados, cuatro _____ y _____ ángulos _____. Los dos lados opuestos en el rectángulo son iguales y paralelos el uno al otro. El _____ de un rectángulo es la medida de la _____ que ocupa esta figura. En general, el área de una figura es la cantidad de _____ que caben en ella.

Responde según lo aprendido en el vídeo:

¿En qué medidas se puede expresar el área de un rectángulo?

¿Cuál es la fórmula para calcular el área de un rectángulo?

¿Cuáles son los tres pasos para calcular el área del rectángulo?

Según lo explicado en el vídeo, resuelve los siguientes problemas y haz un dibujo alusivo:

Encuentra el área de un rectángulo que tiene una base de 20 cm y una altura de 12 cm.	
Encuentra el área de una pizarra con dimensiones 140 cm de base y 90 cm de altura.	
¿Cuál es el área de una cancha de basquetbol que tiene una base de 20 metros y 15 metros de altura?	

ANEXO #9

Contenido: El sistema tegumentario

Recurso a utilizar para resolver la presente guía:
https://youtu.be/25Z9XZ7LsFo



Observa el vídeo y responde según lo aprendido:



"La piel, cabello, uñas y glándulas sebáceas y sudoríparas conforman el sistema tegumentario."

¿Qué es la piel?

¿Cuál es la función de la epidermis?

¿Cuál es la función de la dermis?

¿Cuál es la función de la hipodermis?

● Según lo aprendido, escribe un resumen sobre las tres capas del sistema tegumentario:



● Colorea y escribe las partes del sistema tegumentario

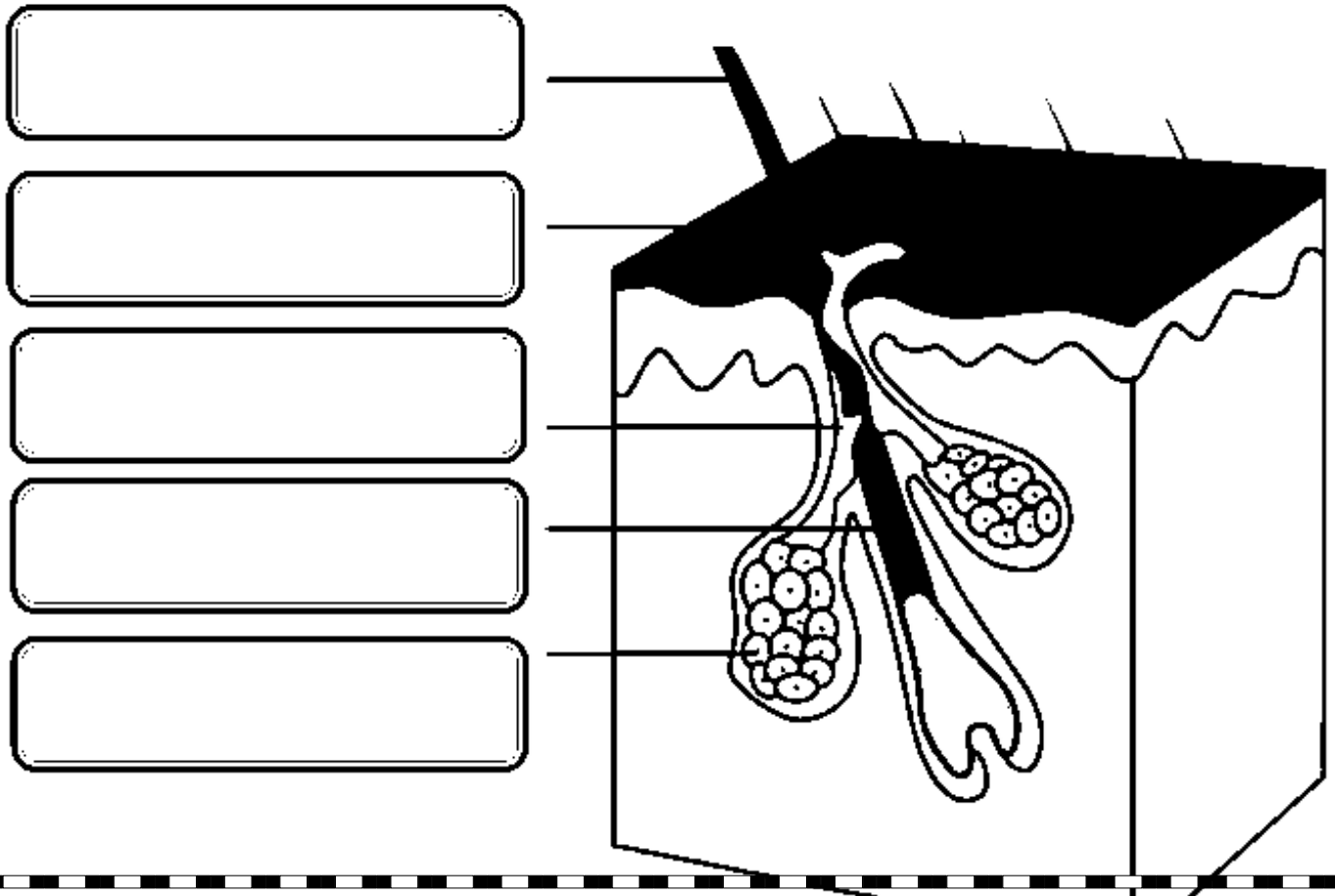

Esmeralda Te Enseña

