CUADERNILLO DE ACTIVIDADES

FIN DE CICLO ESCOLAR



¡ADIÓS 3° GRADO!

Nombre: _____

Escuela: _____



Esmeralda Te Enseña

LENGUA



MATERNA

LAS RIMAS Y COPLAS

Acceda al siguiente enlace para resolver las siguientes actividades

https://youtu.be/perebm_dJCM

¿Qué son las rimas?

_____

_____

_____

¿Dónde podemos encontrar rimas?

_____

¿Qué son las coplas?

_____

_____

_____

Escribe un ejemplo de copla:

_____

_____

_____

COMPLETA CON LAS SIGUIENTES PALABRAS

mariposa

rojas

rosas

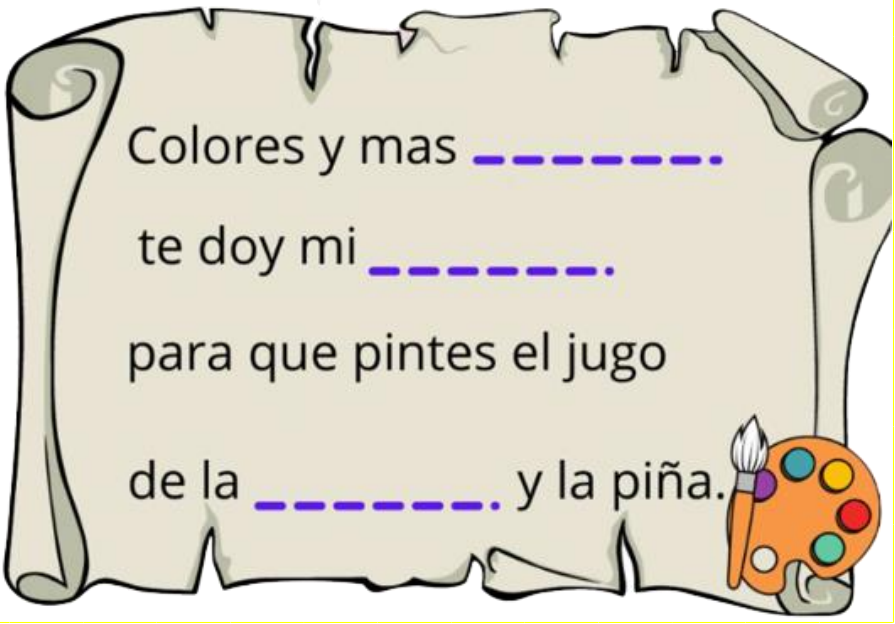

EL DICCIONARIO

Acceda al siguiente enlace para resolver las siguientes actividades

https://youtu.be/nt5Xwp2wudA

¿Qué es el diccionario?

_____

_____

_____

¿Por qué se actualizan los diccionarios?

_____

_____

¿Que son las palabras guías?

_____

¿Dónde se ubican las palabras guías?

_____

Ordena las palabras alfabéticamente según el diccionario:

florería

aflorar

florecer

florista

florear

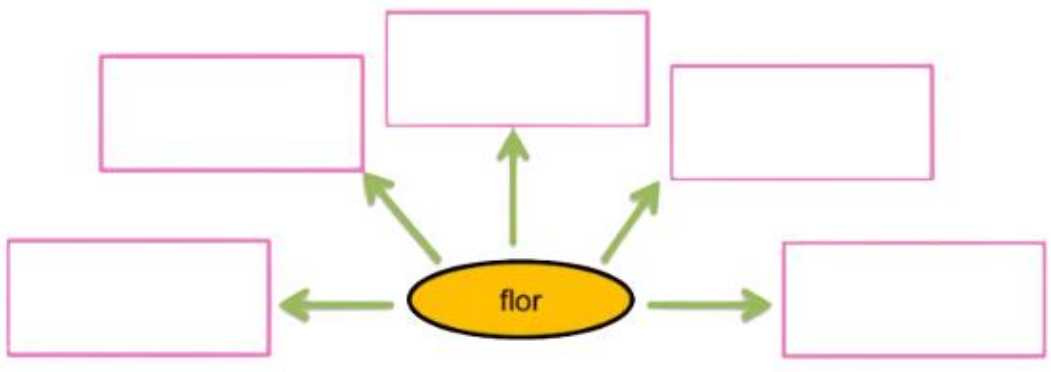

EL LIBRO Y SU ESTRUCTURA

Acceda al siguiente enlace para resolver las siguientes actividades

https://youtu.be/Z8Uq8f5KfXg

Para saber que nos informan los libros es necesario:

_____

_____

¿Cuál es la estructural del libro?

1. _____
2. _____
3. _____

¿Cuál es la estructural del texto?

_____

_____

¿Para qué sirven las ilustraciones en un libro?

_____

_____

¿Para qué sirve el índice en un libro?

_____

_____

RECORTA Y PEGA

SEGÚN LO APRENDIDO:

CONTRAPORTADA | AUTOR | LOMO | PORTADA | PÁGINAS | TÍTULO

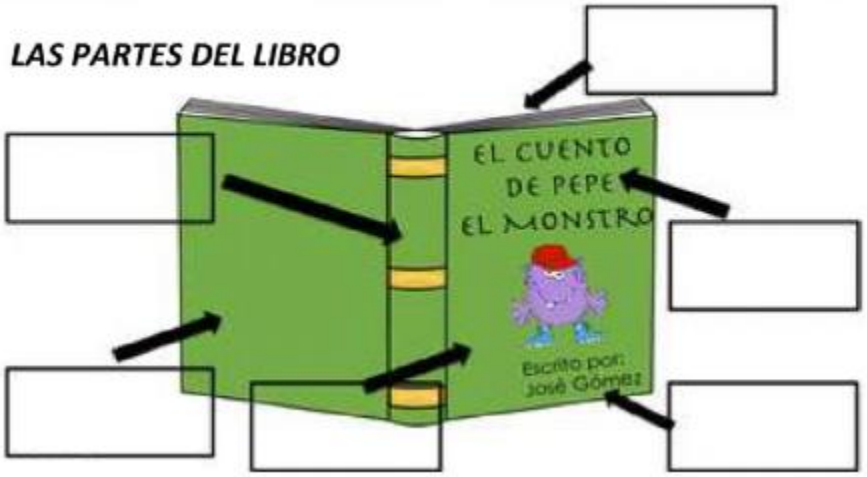

MATEMÁTICA



UNIDAD, DECENA Y CENTENA

Acceda al siguiente enlace para resolver las siguientes actividades

https://youtu.be/q_cAQcySOLY

¿Qué es la unidad, decena y centena?

Completa la siguiente tabla:

236	dos centenas tres decenas seis unidades	C 2	D 3	U 6	200 + 30 + 6
712	----------	C	D	U	----------
---------	----------	C 4	D 0	U 9	----------
---------	----------	C	D	U	400 + 10 + 5
---------	una centena ocho decenas cero unidades	C	D	U	----------

MEDIDAS DE CAPACIDAD Y PESO

Acceda al siguiente enlace para resolver las siguientes actividades

https://youtu.be/HvbrQJ1GPcY

¿Cuáles son las unidades de medida no estándar?

_____

_____

Completa:

El litro: Es ____ _____ patrón de las medidas de _____, su símbolo es _____ y se utiliza para _____ _____ _____ de _____ que hay en _____ _____.

El mililitro: Pertenece a la familia de ____ _____, su símbolo es _____ o _____, se usa_____ _____ pequeñas _____ de _____.

El hectolitro: Su símbolo es _____ o _____, se utiliza _____ _____ _____ cantidades de _____

¿Cómo podemos convertir kilogramos a toneladas?

_____

COMPLETA:

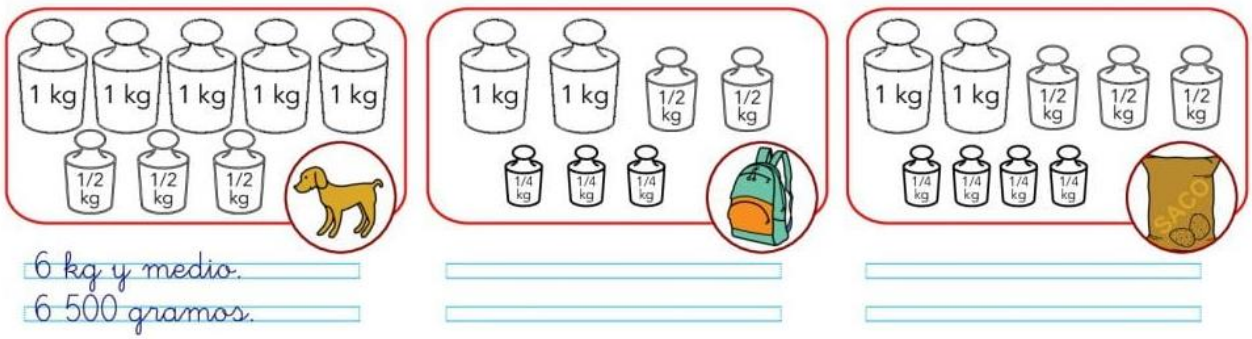

LAS MULTIPLICACIONES

Acceda al siguiente enlace para resolver las siguientes actividades

https://youtu.be/UJCUMVpgpl0

¿Cuál es el método para multiplicar números naturales por 10?

_____
_____
_____

¿Cuál es el método para multiplicar números naturales por 100?

_____
_____
_____

¿Cuál es el método para multiplicar números naturales por 1,000?

_____
_____
_____

Resuelve las siguientes multiplicaciones

327 x 100 =	48 x 10 =
93 x 1000 =	4,25 x 10 =
7,821 x 100 =	9,326 x 1000 =
82,35 x 1000 =	0,93 x 1000 =
4,2 x 100 =	7,8 x 1000 =

CIENCIAS



NATURALES

IMPORTANCIA DEL AGUA

Acceda al siguiente enlace para resolver las siguientes actividades

https://youtu.be/xkLtdwMNByM

Complete el siguiente enunciado:

La vida en la Tierra existe gracias a la presencia de agua en el planeta, sobre todo por la que se encuentra en estado _____. El "_____ _____" como ya se ha comenzado a llamar a este recurso, recibe dicho nombre por la _____ que tiene para nuestra _____ y a la vez por su _____.



Escribe la importancia del agua:

Nuestro cuerpo necesita agua para poder llevar a cabo muchas de las funciones que desempeña. Por ejemplo:

_____

_____

_____

Escribe: El porcentaje de agua salada y dulce hay en el planeta, que porcentaje de agua dulce hay en los glaciares y que porcentaje es para consumo humano:

_____

_____

_____

El deterioro de la calidad del agua se ha convertido en motivo de preocupación debido a:

_____

CAUSAS DE LA EXTINCIÓN DE LOS SERES VIVOS

Acceda al siguiente enlace para resolver las siguientes actividades

https://youtu.be/hTy8Vlp4MgM

1)





2)

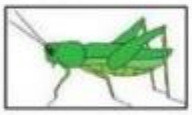




3)








OBSERVA LA ILUSTRACIÓN RECORTA Y PEGA CADA FIGURA EN LOS CUADROS CORRESPONDIENTES A FIN DE ORDENAR LOS PASOS QUE SE DAN EN UNA CADENA ALIMENTARIA O CADENA TRÓFICA

¿Qué pasaría si se rompe la cadena alimentaria?

_____

_____

Escriba en qué forma se ve afectada la cadena alimentaria de los humanos:

_____

_____

_____

_____

_____

EL SISTEMA ENDOCRINO

Acceda al siguiente enlace para resolver las siguientes actividades

https://youtu.be/GwRP7UfAPiE

Lleva cada nombre al lugar correspondiente en los dibujos, siguiendo el ejemplo:

Ovarios - Páncreas – Hipófisis – Tiroides – Glándulas suprarrenales - Testículos - Timo

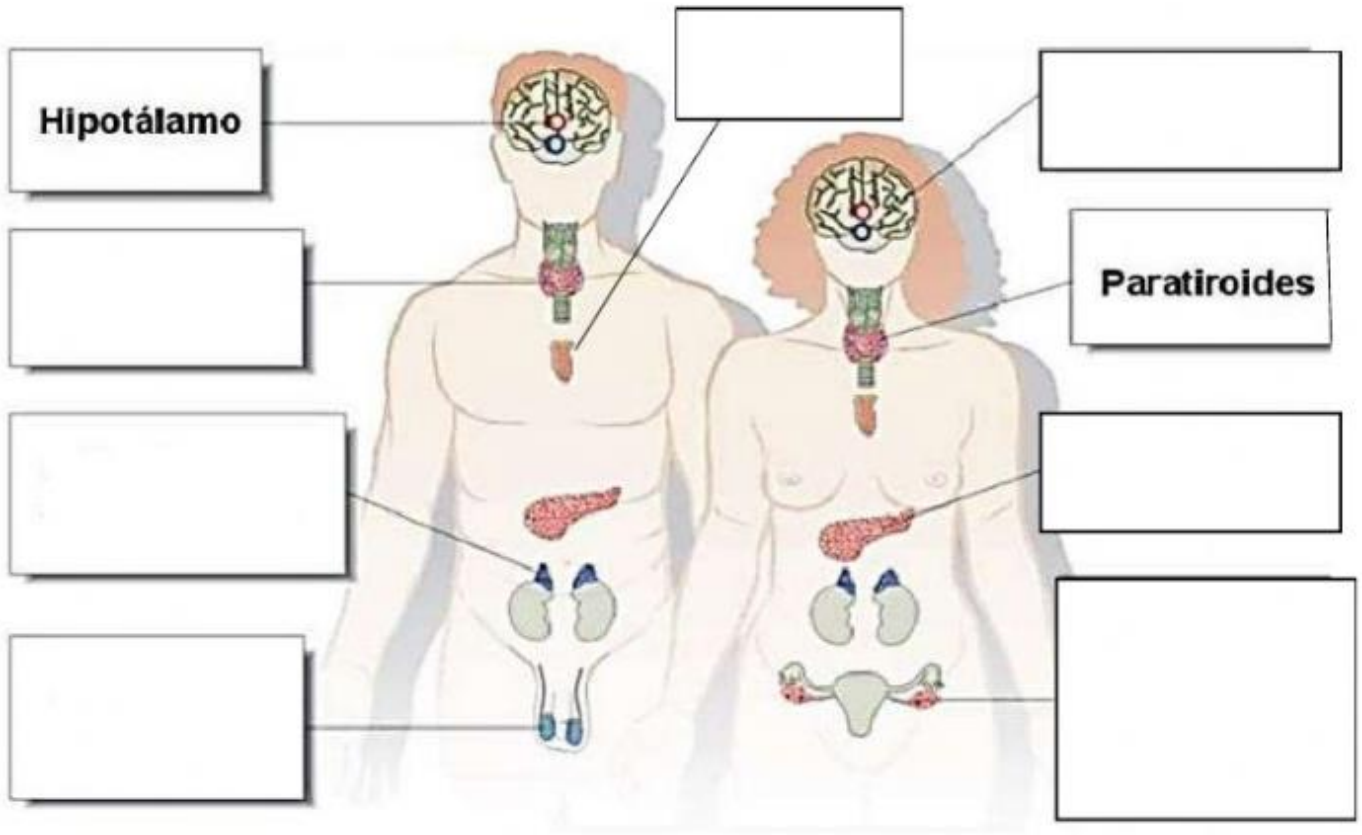

¿Cómo podemos detectar problemas en nuestro sistema endocrino?

FORMACIÓN



CÍVICA Y ÉTICA

LA JUSTICIA

Acceda al siguiente enlace para resolver las siguientes actividades

https://youtu.be/NFG4HTvnG98

¿Qué es la justicia?

_____
_____
_____

Describe los cuatro tipos de justicia que existen:



Escribe tres ejemplos de justicia:

- _____
- _____
- _____

DERECHO A LA LIBERTAD

Acceda al siguiente enlace para resolver las siguientes actividades

https://youtu.be/ssJ0L9lO8uE

¿Qué es la libertad?

_____
_____
_____
_____

Escribe el nombre de cinco tipos de libertad

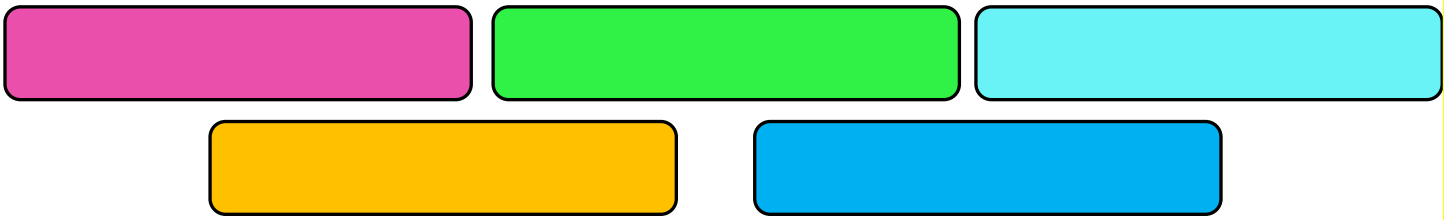

La libertad de expresión conlleva a otros tipos de libertades como son:

_____
_____
_____

¿Qué es la libertad de opinión?

_____
_____
_____

¿Qué valor se debe practicar al compartir nuestra opinión y a la vez escuchar la opinión de otros?

_____

¿Los niños tienen derecho a la libertad de expresión?

_____

LAS NORMAS DE CONVIVENCIA

Acceda al siguiente enlace para resolver las siguientes actividades

https://youtu.be/nbusmAaGrDE

¿Qué son las normas de convivencia?

_____

_____

_____

¿Para qué sirven las normas de convivencia?

_____

_____

_____

Escribe cinco normas de convivencia según el lugar donde te encuentres:

Normas de convivencia en la escuela

1. _____
2. _____
3. _____
4. _____
5. _____



Normas de convivencia en el hogar:

1. _____
2. _____
3. _____
4. _____
5. _____



Normas de convivencia en las redes sociales:

1. _____
2. _____
3. _____
4. _____
5. _____



EDUCACIÓN



SOCIOEMOCIONAL

EMOCIÓN DEL ASCO

Acceda al siguiente enlace para resolver las siguientes actividades

https://youtu.be/RDIMjGvlyQ4

¿Qué es la emoción del asco?

_____

_____

_____

Escribe una ventaja de sentir asco:

_____

Escribe una desventaja de sentir asco:

_____

Escribe los cinco pasos para superar el asco:



LA NOSTALGIA

Acceda al siguiente enlace para resolver las siguientes actividades

https://youtu.be/SWQr4SLjoZs

Encierre la respuesta correcta

¿Qué es la nostalgia?

a) Un sentimiento b) Una emoción

La nostalgia es:

a) Ansiedad y angustia b) Anhelo y añoranza

El origen de la añoranza puede ser por:

a) Recuerdos del pasado o personas distantes b) por no comer ni dormir

¿Qué tipo de beneficio nos puede dar el sentimiento de la nostalgia si se enfoca positivamente?

a) Provoca hambre y ganas de salir

b) Reduce el dolor inflamatorio y disminuye la soledad

Los dos tipos de nostalgia son:

a) La imaginativa y la Curativa b) La reflexiva y la restaurativa

Escriba las características de la nostalgia:

1._____
2._____
3._____

Escriba 3 acciones para minimizar o curar la nostalgia:

_____
_____
_____

EMOCIÓN DEL ENOJO

Acceda al siguiente enlace para resolver las siguientes actividades

https://youtu.be/D0O9Ke1yxS0

¿Qué es la emoción del enojo?

_____

_____

_____

Escribe tres ejemplos de causas externas de enojo:

Escribe tres ejemplos de causas internas de enojo:

Escribe 5 enfermedades que se producen a causa del enojo:

1._____
2._____
3._____
4._____
5._____

¡DIBUJA CARITAS ENOJADAS!



VIDA SALUDABLE



EL PLATO DEL BUEN COMER

Acceda al siguiente enlace para resolver las siguientes actividades

https://youtu.be/OdnPIsJrA00

¿En cuantas partes se divide el plato del buen comer?

_____

¿Qué alimentos conforman la zona roja en el plato del buen comer?

_____

¿Qué alimentos conforman la zona amarilla en el plato del buen comer?

_____

¿Qué alimentos conforman la verde en el plato del buen comer?

_____

¿Cuántas piezas de fruta y verdura se deben comer al día?

_____

Escribe ejemplos de:

LEGUMINOSAS:

CEREALES:

LOS SISTEMAS DEL CUERPO HUMANO Y LA NUTRICIÓN

Acceda al siguiente enlace para resolver las siguientes actividades

https://youtu.be/jcVuOwGEbtU

¿Cuál es la diferencia entre alimentación y nutrición?

_____

_____

_____

¿Qué perjuicios provoca a nuestro organismo tener malos hábitos de nutrición y sedentarismo?

_____

_____

_____

Escriba la función que realizan los siguientes sistemas a la hora de la nutrición

SISTEMA DIGESTIVO:

SISTEMA CIRCULATORIO:

SISTEMA EXCRETOR:

SISTEMA DIGESTIVO:

¿Cuál es el líquido más importante que no debemos dejar de lado a la hora de la nutrición?

_____

IMPORTANCIA DEL AGUA EN LA NUTRICIÓN

Acceda al siguiente enlace para resolver las siguientes actividades

https://youtu.be/ubgIRPMJ0TI

Escribe cinco beneficios de beber agua:

1. _____
2. _____
3. _____
4. _____
5. _____

¿Cuánta agua hay que beber al día?

_____
_____
_____
_____

Escribe dos recomendaciones para una hidratación saludable:

Escribe cuatro consecuencias por beber poca agua:





Felicidades por tu graduación

DEDICO ESTE VÍDEO
ESPECIALMENTE PARA TI

https://youtu.be/YJDNASDZU10

Es tiempo de celebrar
TUS ESFUERZOS Y LOGROS

SUSCRÍBETE A LOS SIGUIENTES CANALES:

ESMERALDA TE ENSEÑA:

https://www.youtube.com/channel/UCToR5eo1CpfHQkB9_JJOuNg

ESMERALDA TE CUENTA UN CUENTO

https://www.youtube.com/channel/UCimVlSx73dEB1fxrn5tWrvw

PAGINA DE FACEBOOK

https://www.facebook.com/Esmeralda-te-ense%C3%B1a-106033734606664/

