TAREFÃO INTERDISCIPLINAR 3º ANO



NOME: _____

TURMA: _____ PROFESSORA:_____

ATIVIDADE 01: LÍNGUA PORTUGUESA

ORDEM ALFABÉTICA

EM CADA GRUPO ABAIXO ESTÁ ESCRITO O NOME DE ALGUNS ALIMENTOS. LEIA E MARQUE A OPÇÃO EM QUE O NOME DOS ALIMENTOS SEGUE A ORDEM ALFABÉTICA.

A)
ARROZ
DOCE
BISCOITO
EMPADA
FAROFA
IOGURTE
LEITE
OVOS
SORVETE
TORTA

B)
EMPADA
DOCE
BISCOITO
ARROZ
FAROFA
IOGURTE
LEITE
OVOS
SORVETE
TORTA

C)
ARROZ
BISCOITO
DOCE
EMPADA
FAROFA
IOGURTE
LEITE
OVOS
SORVETE
TORTA

D)
FAROFA
DOCE
BISCOITO
EMPADA
ARROZ
IOGURTE
LEITE
OVOS
SORVETE
TORTA

A ( ) B ( ) C) ( ) D ( )

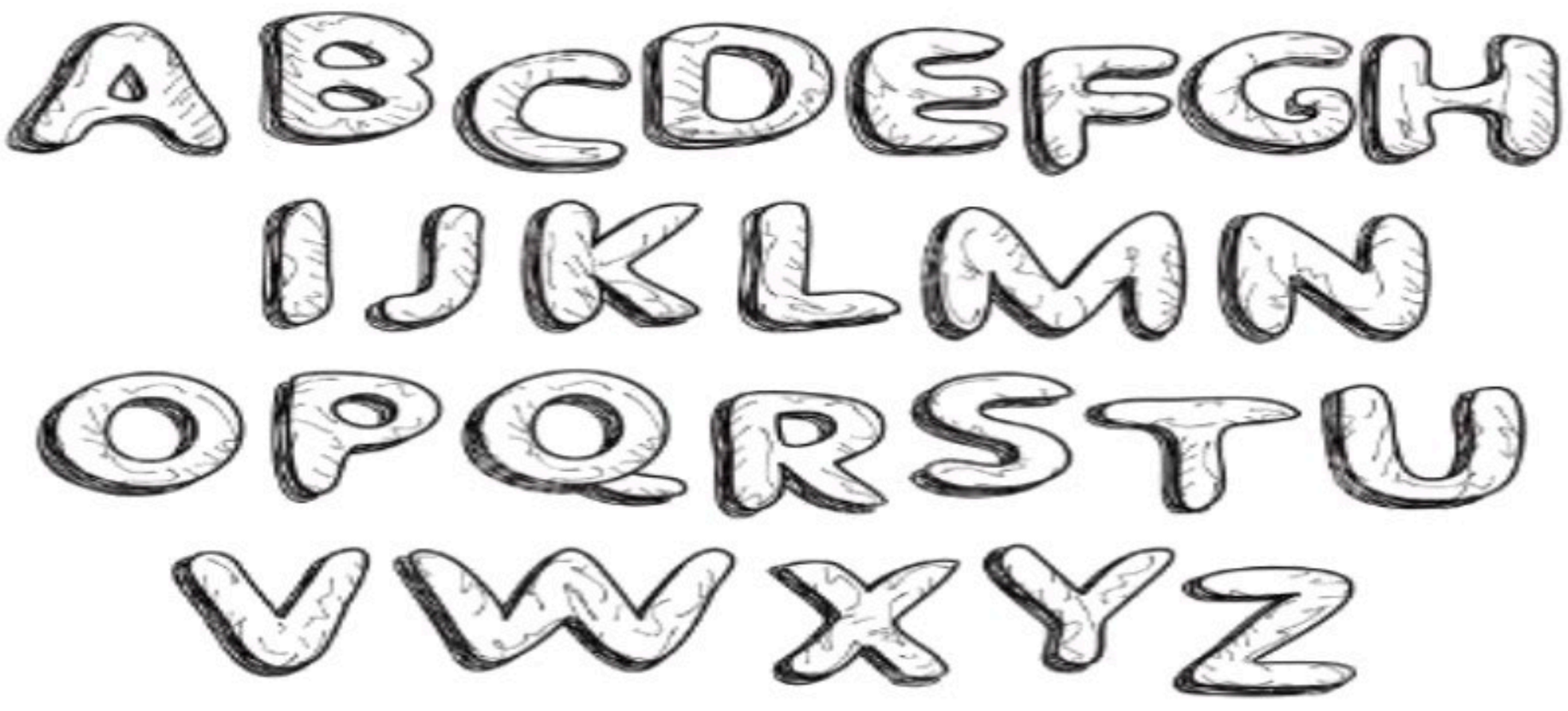

ATIVIDADE 02: MATEMÁTICA

02.1 – (SAEMM - CE). OBSERVE A SEQUÊNCIA DE NÚMEROS ABAIXO.

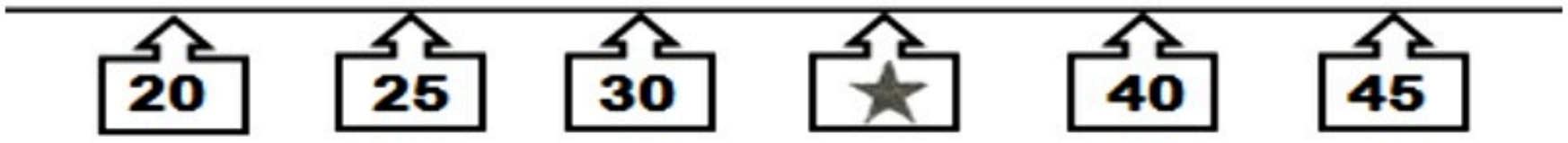

NESSA SEQUÊNCIA, O SÍMBOLO ★ ESTÁ NO LUGAR DO NÚMERO?

A. ( ) 31 B. ( ) 34 C. ( ) 35 D. ( ) 39

02.2 – (SEDUC-GO) PEDRINHO ESCREVEU CERTO NÚMERO DA SEGUINTE FORMA:

700 + 40 + 5

O NÚMERO ESCRITO POR PEDRINHO É:

A. ( ) 700 B. ( ) 705 C. ( ) 740 D. ( ) 745

02.3 – (SAEMI - PE) OBSERVE NO DESENHO ABAIXO O NÚMERO DA CASA DE SIMONE.



QUAL É A ESCRITA POR EXTENSO DO NÚMERO DA CASA DE SIMONE?

A. ( ) QUARENTA E CINCO.

B. ( ) QUATRO MIL E CINCO.

C. ( ) QUATROCENTOS E CINCO.

D, ( ) QUATROCENTOS E CINQUENTA

02.4 – (SEDUC–GO) ORDENE OS NUMERAIS EM **ORDEM CRESCENTE** E MARQUE COM UM **X** A ALTERNATIVA CORRETA:

A. ( ) 25, 88, 120, 153, 280, 326 E 400.

B. ( ) 25, 120, 280, 88, 400, 153 E 326.

C. ( ) 25, 88, 153, 120, 280, 326 E 400.

D. ( ) 25, 400, 326, 280, 153, 120 E 88.



02.5 – (SAEMM-CE). OBSERVE ABAIXO AS CASAS DE CINCO AMIGOS.



QUAL DOS AMIGOS TEM A CASA COM MAIOR NÚMERO?

A. ( ) CARLOS B. ( ) FERNANDO C. ( ) MÁRIO D. ( ) EDUARDO

02.6 – (SEDUC-GO) AS FICHAS A SEGUIR MOSTRAM A QUANTIDADE DE PONTOS QUE ROBERTO FEZ EM UM JOGO.



AO TODO ROBERTO FEZ:

A. ( ) 70 PONTOS B. ( ) 340 PONTOS C. ( ) 430 PONTOS D. ( ) 700 PONTOS

02.7 – OBSERVE COM ATENÇÃO AS REPRESENTAÇÕES ABAIXO:

ÁBACO

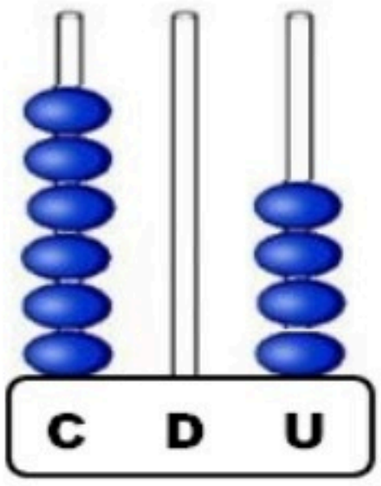

MATERIAL DOURADO



QUADRO POSICIONAL

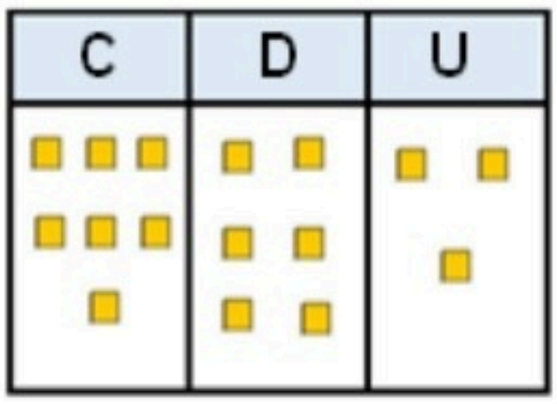

ASSINALE A ALTERNATIVA DOS NÚMEROS REPRESENTADOS NO ÁBACO, MATERIAL DOURADO E QUADRO POSICIONAL RESPECTIVAMENTE:

A. ( ) 604, 370 E 736.

B. ( ) 604, 325 E 763.

C. ( ) 406, 523 E 367.

D. ( ) 640, 253 E 673.

ATIVIDADE 03: EDUCAÇÃO RELIGIOSA

OBSERVE A IMAGEM E RESPONDA:



COMO SERES VIVOS, SABEMOS O QUANTO A NATUREZA É IMPORTANTE PARA NOSSA VIDA! TEMOS QUE TRATAR BEM ELA E TODOS OS SERES HUMANOS E ANIMAIS QUE HABITAM NA TERRA.

PENSANDO NISSO, MARQUE A OPÇÃO QUE REPRESENTA UMA ATITUDE CORRETA EM NOSSA VIDA NA NATUREZA:

A ( ) QUE A NATUREZA NÃO É BELA.

B ( ) COMO É MARAVILHOSO TUDO O QUE O CRIADOR FEZ.

C ( ) QUE O HOMEM NÃO DESTRÓI A NATUREZA.

D ( ) NÃO PRECISAMOS DA NATUREZA.

- REPRESENTE COM UM DESENHO ABAIXO, COMO VOCÊ TRATA A NATUREZA!

ATIVIDADE 04: LÍNGUA PORTUGUESA

BILHETE É UMA MENSAGEM CURTA QUE TRAZ ALGUMA INFORMAÇÃO.

MARCELINHO,

FUI AO SHOPPING TROCAR A SANDÁLIA.

AO SE LEVANTAR, POR FAVOR ARRUME O SEU QUARTO.

BEIJÃO...

MAMÃE

20/05/2021



MARQUE A RESPOSTA CORRETA:

QUEM ESCREVEU O BILHETE ACIMA?

A) ( ) MARCELINHO

B) ( ) MAMÃE

C) ( ) VOVÓ

D) ( ) COLEGUINHA

PARA QUEM FOI O BILHETE?

A) ( ) MARCELINHO

B) ( ) FILHA

C) ( ) MAMÃE

D) ( ) PAPAI

EM QUE DIA FOI ESCRITO O BILHETE?

A ( ) 22/05/2021

B ( ) 05/05/2021

C) ( ) 02/05/2021

D) ( ) 20/05/2021

ATIVIDADE 05: MATEMÁTICA

05.1 – VEJA AS CAIXAS ONDE MARCELA GUARDA OS SEUS BRINQUEDOS:



QUAIS DAS FIGURAS A SEGUIR REPRESENTAM O FORMATO DAS CAIXAS ONDE MARCELA GUARDA SEUS BRINQUEDOS?

A. ( )

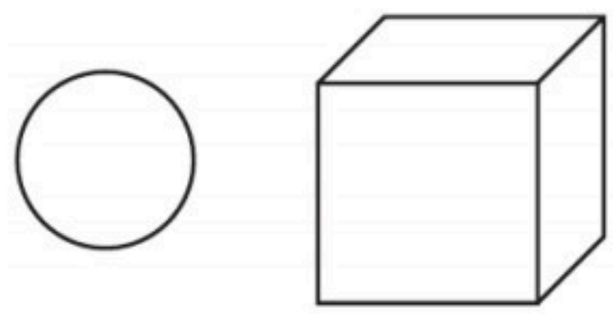

B. ( )

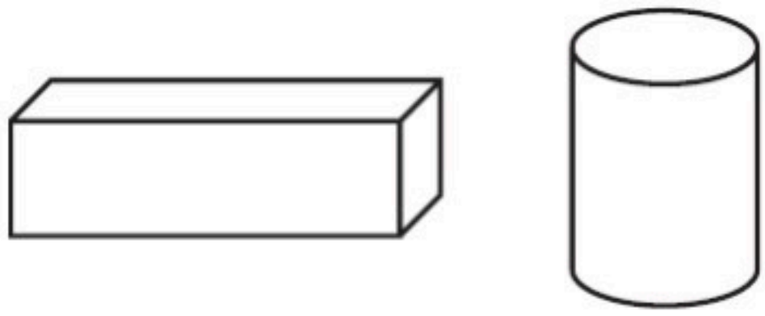

C. ( )

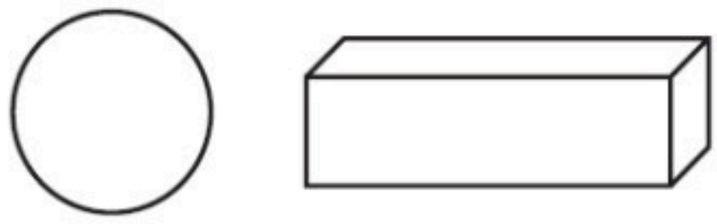

D. ( )

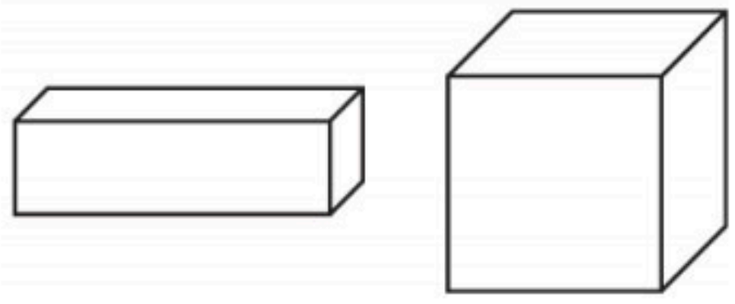

05.2 – OBSERVE O CAMPO DE FUTEBOL DE BOTÃO QUE JUCA GANHOU DE PRESENTE DE ANIVERSÁRIO.

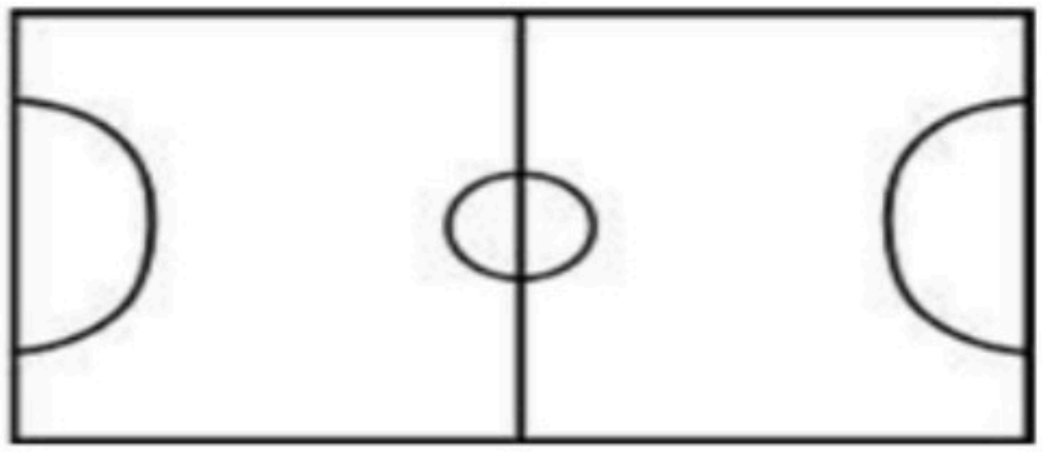

A FORMA DESSE CAMPO É:

A. ( ) QUADRADO B. ( ) RETÂNGULO C. ( ) TRIÂNGULO D. ( ) LOSANGO

05.3 – (SEDUC-RJ).



ESTE FOI O CONVITE DA FESTA JUNINA QUE A ESCOLA LUGAR DE APRENDER FEZ PARA ESTE ANO.

NO CONVITE, A FORMA DO VESTIDO DA MENINA LEMBRA:

A. ( ) UM CÍRCULO.

B. ( ) UM RETÂNGULO.

C. ( ) UM QUADRADO.

D. ( ) UM TRIÂNGULO.

ATIVIDADE 06: EDUCAÇÃO FÍSICA

OBSERVE AS FIGURAS E RESPONDA.









AS FIGURAS ACIMA SÃO ESPORTES DE:

A. ( ) ESPORTE DE PAREDE E ESPORTE DE CONTATO

B. ( ) ESPORTE DE CHUTE E ESPORTE DE BOLA

C. ( ) ESPORTE DE REDE/PAREDE E ESPORTE DE INVASÃO

D. ( ) ESPORTE DE REDE E ESPORTE DE CHUTE

ATIVIDADE 07: LÍNGUA PORTUGUESA

FRASE É UMA PALAVRA OU UM GRUPO DE PALAVRAS QUE TEM SENTIDO COMPLETO.

LEIA COM ATENÇÃO A FRASE ABAIXO E RESOLVA AS ATIVIDADES.

JOÃO PEDRO, RAFAEL E JÚLIA FIZERAM AS BANDEIRINHAS PARA ENFEITAR A FESTA DA ESCOLA.

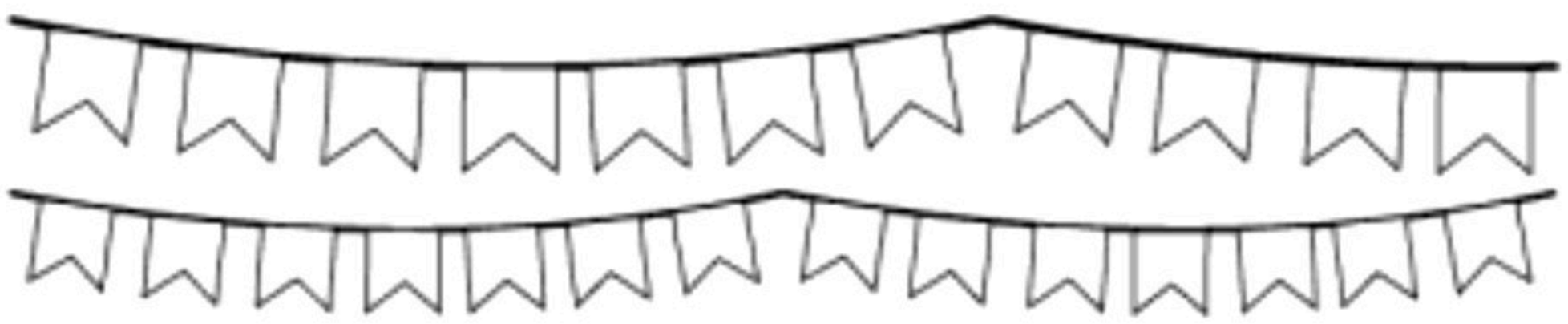

ESSA É UMA FRASE:

A ( ) NEGATIVA

B ( ) EXCLAMATIVA

C ( ) AFIRMATIVA

D ( ) INTERROGATIVA

A FRASE TERMINA COM:

A ( ) PONTO DE INTERROGAÇÃO **?**

B ( ) PONTO FINAL **.**

C) ( ) PONTO EXCLAMAÇÃO **!**

D) ( ) DOIS PONTOS **:**

ATIVIDADE 08: MATEMÁTICA

LEIA COM BASTANTE ATENÇÃO E REGISTRE OS CÁLCULOS.

08.1 – A FIGURA A SEGUIR MOSTRA A DISTÂNCIA EM METROS DA CASA DE PALOMA ATÉ A ESCOLA ONDE ELA ESTUDA, PASSANDO PELA CASA DE SUA AMIGA MALU.

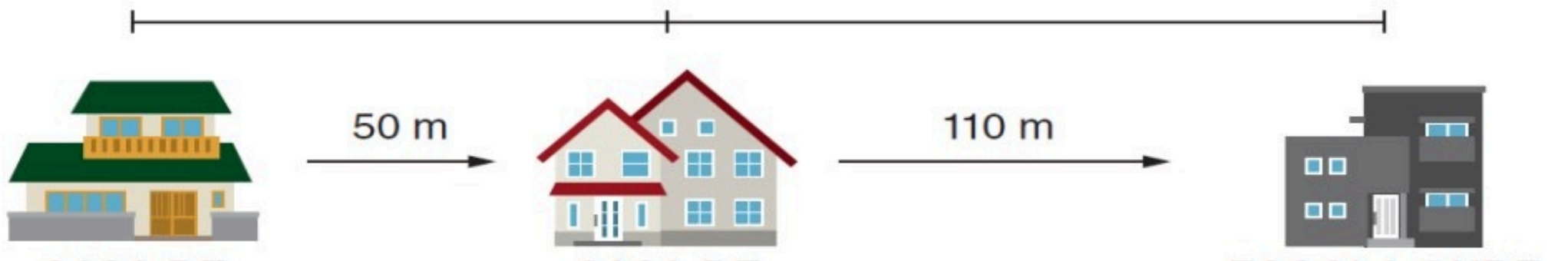

QUAL A DISTÂNCIA, EM METROS, DA CASA DE PALOMA ATÉ A ESCOLA ONDE ELA ESTUDA?

A. ( ) 50 METROS

B. ( ) 60 METROS

C. ( ) 110 METROS

D. ( ) 160 METROS

08.2 – (SEDUC-GO) MARCOS, PEDRO, LUCIANO E GABRIEL ESTÃO DISPUTANDO O MELHOR TEMPO PARA DEFINIR A POSIÇÃO DE LARGADA NA CORRIDA ANUAL DE BICICLETA. MARCOS FEZ O TEMPO DE 56 MINUTOS, PEDRO OBTEVE 30 MINUTOS, LUCIANO 42 MINUTOS E GABRIEL 37 MINUTOS. CONSIDERANDO QUE O MENOR TEMPO SERÁ O PRIMEIRO DA FILA, A ORDEM CORRETA DA POSIÇÃO DA LARGADA É:

A. ( ) 1º MARCOS, 2º PEDRO, 3º LUCIANO E 4º GABRIEL.

B. ( ) 1º PEDRO, 2º GABRIEL, 3º LUCIANO E 4º MARCOS.

C. ( ) 1º GABRIEL, 2º PEDRO, 3º LUCIANO E 4º MARCOS.

D. ( ) 1º PEDRO, 2º GABRIEL, 3º MARCOS E 4º LUCIANO.



08.3 – EM UM CLUBE, HÁ TURMAS DE NATAÇÃO NO PERÍODO DA MANHÃ E NO PERÍODO DA TARDE. ESTÃO MATRICULADOS 301 ALUNOS NAS TURMAS DA MANHÃ E 211 ALUNOS NAS TURMAS DA TARDE. AO TODO, QUANTOS ALUNOS PRATICAM NATAÇÃO NESSE CLUBE?

A. ( ) 215

B. ( ) 512

C. ( ) 125

D. ( ) 251



08.4 – OBSERVE A REPRESENTAÇÃO DE UMA SALA DE AULA A SEGUIR:

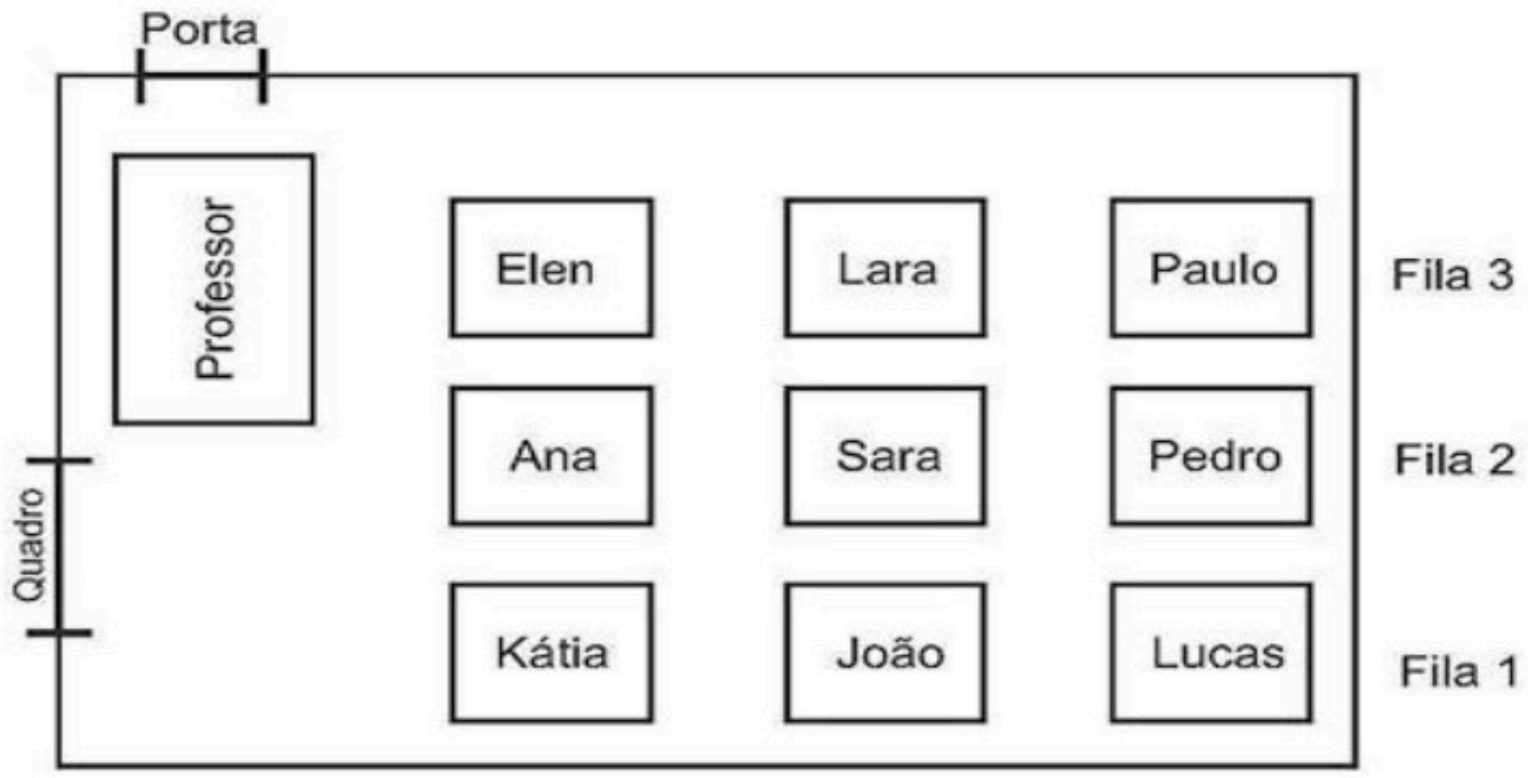

A) QUEM OCUPA A POSIÇÃO CENTRAL NESTA REPRESENTAÇÃO?

A. ( ) ANA B. ( ) SARA C.( ) PEDRO D. ( ) LARA

B) QUEM ESTÁ MAIS PRÓXIMA DO PROFESSOR?

A. ( ) ELEN B. ( ) ANA C.( ) LARA D. ( ) KÁTIA

C) QUAL É O ESTUDANTE QUE ESTÁ À DIREITA DE JOÃO?

A. ( ) SARA B. ( ) LUCAS C.( ) PEDRO D. ( ) KÁTIA

D) QUEM ESTÁ SENTADO À ESQUERDA DE PEDRO?

A. ( ) JOÃO B. ( ) LUCAS C.( ) PAULO D. ( ) SARA

08.5 – VEJA AS MOTOS QUE JÚNIOR TEM EM SUA COLEÇÃO.



JÚNIOR VENDEU 6 DESSAS MOTOS PARA SEU PRIMO. QUANTAS MOTOS JÚNIOR AINDA TEM NA SUA COLEÇÃO?

A. ( ) 5

B. ( ) 6

C. ( ) 11

D. ( ) 17

08.6 – O RESULTADO DA OPERAÇÃO 379 – 256 É:

A. ( ) PAR

B. ( ) ÍMPAR

ATIVIDADE 09: CIÊNCIAS HUMANAS E DA NATUREZA

O SISTEMA SOLAR

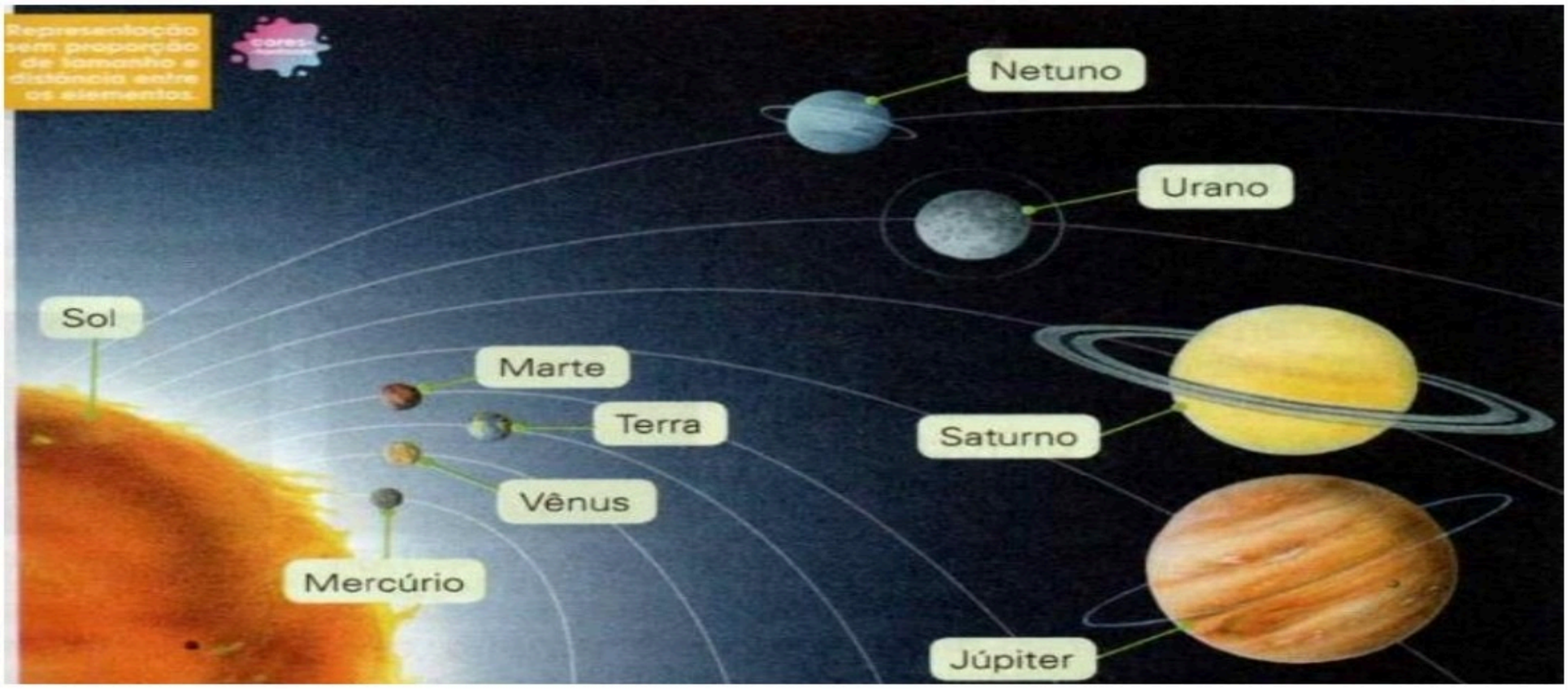

RESPONDA COM MUITA ATENÇÃO:

OS TRÊS PLANETAS MAIS PRÓXIMOS DO SOL SÃO:

A - ( ) URANO, MERCÚRIO E TERRA

B - ( ) MERCÚRIO, VÊNUS E TERRA

C - ( ) TERRA, MARTE E JÚPITER

D - ( ) SOL, MERCÚRIO E VÊNUS

ATIVIDADE 10: CIÊNCIAS HUMANAS E DA NATUREZA

QUANTOS PLANETAS FAZEM PARTE DO SISTEMA SOLAR?

A - ( ) 7

B - ( ) 9

C - ( ) 8

D - ( ) 10

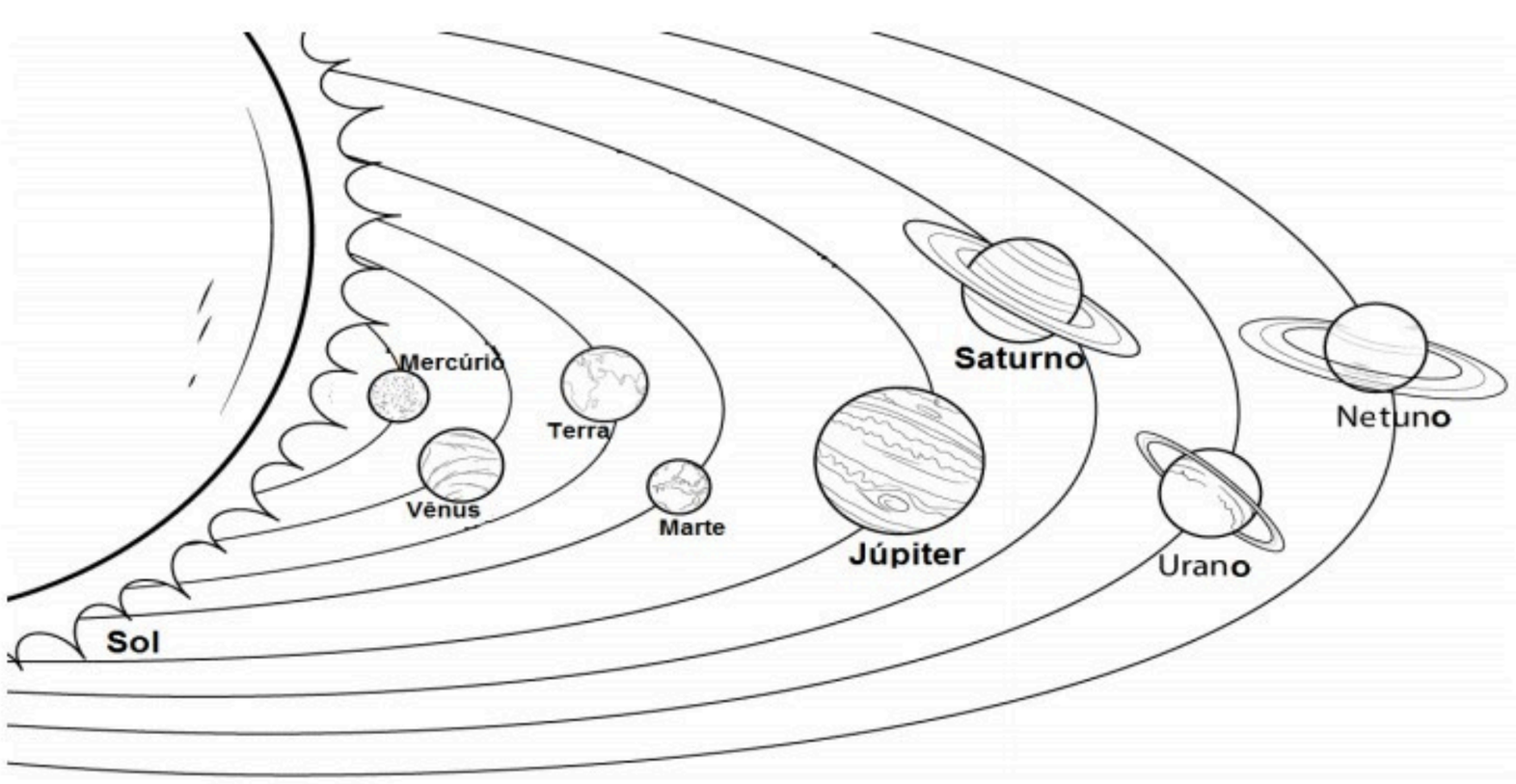

ATIVIDADE 11: LÍNGUA PORTUGUESA

LEIA A PARLENDA E FAÇA O QUE SE PEDE:



FORMIGUINHA DA ROÇA

FORMIGUINHA DA ROÇA

ENDOIDECEU.

COM UMA DOR DE CABEÇA

QUE LHE DEU.

AI, POBRE

AI, POBRE FORMIGUINHA!

PÕE A MÃO NA CABEÇA

E FAZ ASSIM...E FAZ ASSIM.

BIA BEDRAN

11.1) OBSERVE AS PALAVRAS DESTACADAS NA PARLENDA E MARQUE A OPÇÃO NA ORDEM QUE AS PALAVRAS APARECEM NA PARLENDA, QUANTO A CLASSIFICAÇÃO DO NÚMERO DE SÍLABAS.

A ( ) TRISSÍLABA – DISSÍLABA – MONOSSÍLABA – POLISSÍLABA

B ( ) POLISSÍLABA – DISSÍLABA – MONOSSÍLABA – TRISSÍLABA

C ( ) POLISSÍLABA – MONOSSÍLABA – DISSÍLABA – TRISSÍLABA

D ( ) DISSÍLABA – MONOSSÍLABA – POLISSÍLABA – TRISSÍLABA

ATIVIDADE 12: MATEMÁTICA

12.1 – MINHA MÃE FEZ UMA PESQUISA PARA SABER QUAL A SOBREMESA PREFERIDA DOS CONVIDADOS PARA MINHA FESTA DE ANIVERSÁRIO. SEPARAU OS CONVIDADOS EM DOIS GRUPOS: ADULTOS E CRIANÇAS.

✓ VEJA A TABELA COM OS DADOS COLETADOS:

SOBREMESAS	CONVIDADOS ADULTOS	CONVIDADOS CRIANÇAS
Bolo 	8	6
Sorvete 	5	10
Pudim 	7	2
Brigadeiro 	3	11

AGORA, RESPONDA:

A) QUAL A SOBREMESA PREFERIDA DOS ADULTOS?

A. ( ) BOLO B. ( ) SORVETE C. ( ) PUDIM D. ( ) BRIGADEIRO

B) QUAL A SOBREMESA PREFERIDA DAS CRIANÇAS?

A. ( ) BOLO B. ( ) SORVETE C. ( ) PUDIM D. ( ) BRIGADEIRO

C) QUAL A SOBREMESA QUE RECEBEU O MAIOR NÚMERO DE VOTOS?

A. ( ) BOLO B. ( ) SORVETE C. ( ) PUDIM D. ( ) BRIGADEIRO

D) QUAL A SOBREMESA QUE MAMÃE DEVERÁ FAZER?

A. ( ) BOLO B. ( ) SORVETE C. ( ) PUDIM D. ( ) BRIGADEIRO

E) QUANTOS VOTOS RECEBEU O BOLO?

A. ( ) 6 B. ( ) 8 C. ( ) 14 D. ( ) 15

F) O SORVETE RECEBEU QUANTOS VOTOS?

A. ( ) 4 B. ( ) 5 C. ( ) 10 D. ( ) 15

G) QUANTOS VOTOS RECEBEU O PUDIM?

A. ( ) 2 B. ( ) 5 C. ( ) 7 D. ( ) 9

H) O BRIGADEIRO RECEBEU QUANTOS VOTOS?

A. ( ) 3 B. ( ) 8 C. ( ) 11 D. ( ) 14

♣ REGISTRE OS CÁLCULOS:

12.2 – PARA ORGANIZAR OS PRESENTES QUE GANHEI EM MEU ANIVERSÁRIO FIZ UM GRÁFICO. OBSERVE:

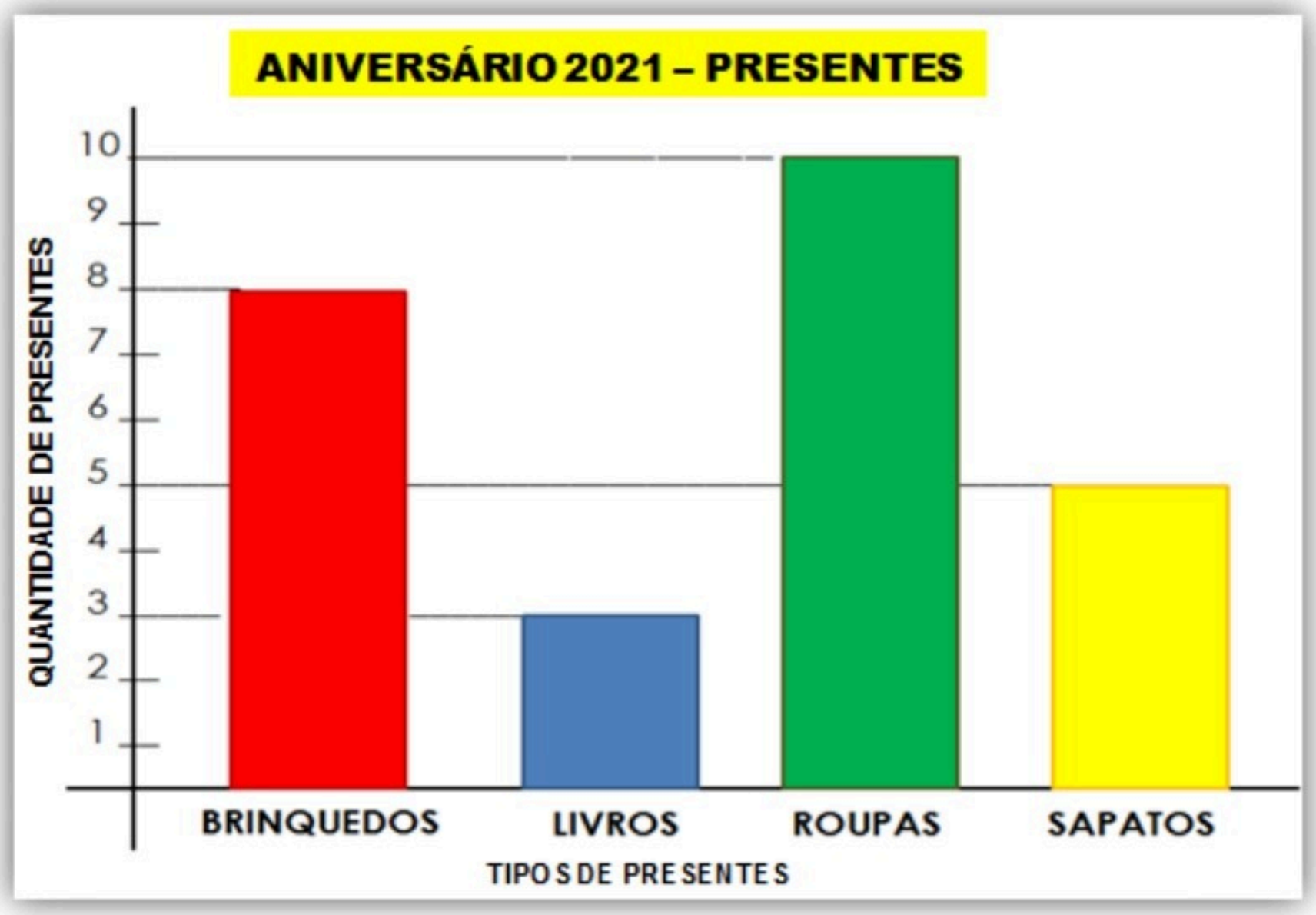

MARQUE A RESPOSTA CORRETA:

A) A QUANTIDADE DE BRINQUEDOS QUE GANHEI FOI:

A. ( ) 3 B. ( ) 5 C. ( ) 8 D. ( ) 10

B) GANHEI MAIS:

A. ( ) BRINQUEDOS B. ( ) LIVROS C. ( ) ROUPAS D. ( ) SAPATOS

C) JUNTANDO A QUANTIDADE DE LIVROS E SAPATOS, QUANTOS PRESENTES GANHEI:

A. ( ) 8 B. ( ) 11 C. ( ) 13 D. ( ) 15

D) GANHEI QUANTOS SAPATOS:

A. ( ) 3 B. ( ) 5 C. ( ) 8 D. ( ) 10

E) O TOTAL DE PRESENTES QUE GANHEI FOI:

A. ( ) 10

B. ( ) 18

C. ( ) 20

D. ( ) 26

♣ REGISTRE OS CÁLCULOS.

ATIVIDADE 13: ARTE

13. 1 - AS CORES PRIMÁRIAS SÃO CHAMADAS ASSIM, PORQUE SÃO CONSIDERADAS AS PRIMEIRAS CORES, OU SEJA, NÃO SE PODE CRIÁ-LAS COM A MISTURA DE NENHUMA COR.

MARQUE APENAS UMA DAS ALTERNATIVAS ABAIXO ONDE ESTÃO ESCRITAS SOMENTE CORES PRIMÁRIAS.



A – ( ) AZUL, VERDE E CINZA

B – ( ) AZUL, AMARELO E VERDE

C – ( ) AZUL, AMARELO E VERMELHO

D – ( ) AZUL, VERMELHO E VIOLETA (ROXO)

13. 2 - A ARTE NOS AJUDA A DESENVOLVER A CRIATIVIDADE E A IMAGINAÇÃO. PARA MOSTRAR QUE VOCÊ É CRIATIVO, UTILIZE AS FORMAS GEOMÉTRICAS ABAIXO E FAÇA UM DESENHO BEM CRIATIVO COM ELAS. CAPRICHE E FAÇA UM LINDO COLORIDO DO SEU DESENHO.

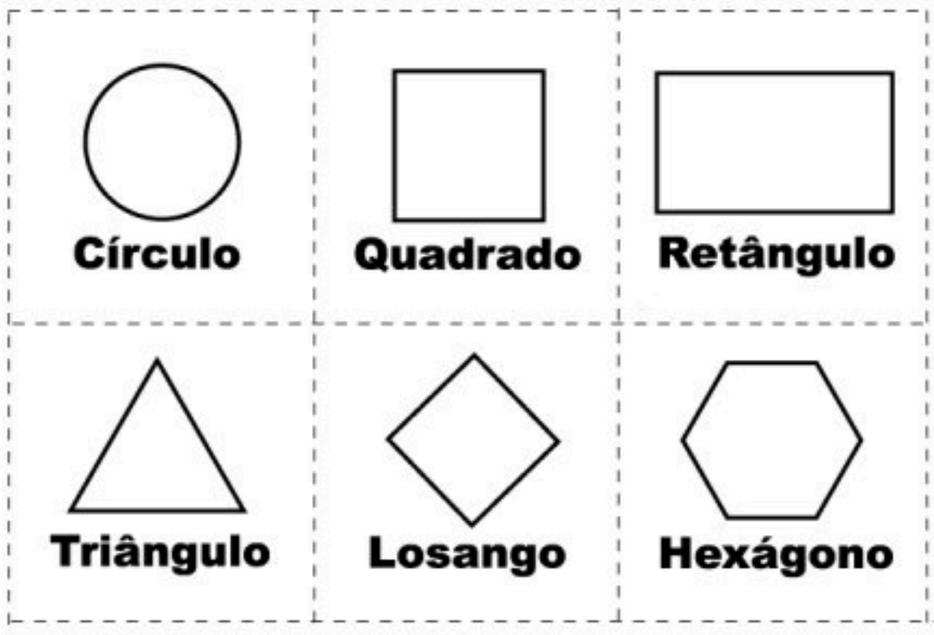

ATIVIDADE 14: CIÊNCIAS HUMANAS E DA NATUREZA

OBSERVE A IMAGEM E RESPONDA:



QUAL É O LUGAR REPRESENTADO NESSA IMAGEM?

A - ( ) UMA PRAÇA

B - ( ) UMA CASA

C - ( ) UM JARDIM

D - ( ) UMA PRAIA

ATIVIDADE 15: CIÊNCIAS HUMANAS E DA NATUREZA

OBSERVE AS DUAS IMAGENS DA PRAÇA DO PAPA EM BELO HORIZONTE - MG:

IMAGEM 1 – ANTIGAMENTE



IMAGEM 2 - ATUAL



MARQUE UM X NA MUDANÇA QUE OCORREU NESTA PRAÇA ATUALMENTE:

A - ( ) MENOS PESSOAS

B - ( ) MAIS ARBORIZADAS E ILUMINAÇÃO PÚBLICA

C - ( ) MENOS MOVIMENTADA

D - ( ) SEM LAZER