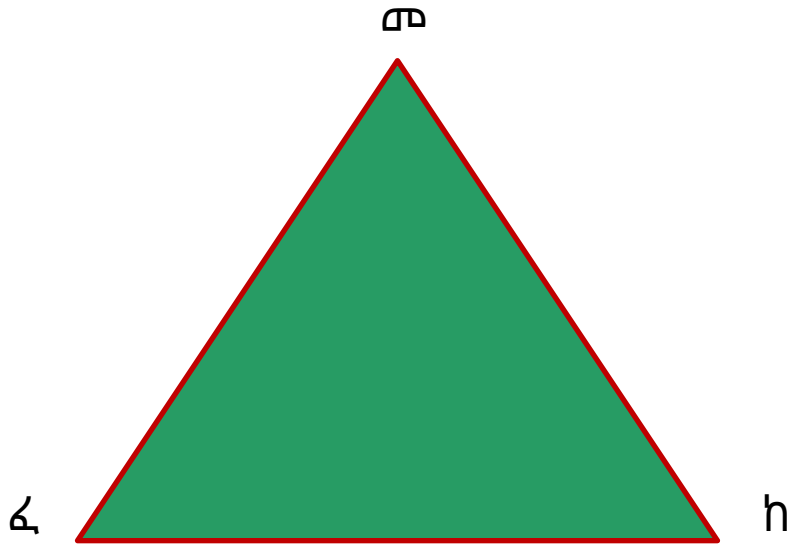

ይህ ጎነ ሶስት ምስል ነው

ጎነ ሶስት **ፈ ከ መ** ተብሎ ይጠራል።

በአጭሩ ሲፃፍ Δ**ፈ ከ መ** ይሆናል

Δ የጎነ ሶስቱ መገለጫ ምልክት ነው።

$\overline{\text{ፈመ}}$፣$\overline{\text{መከ}}$ ፣እና $\overline{\text{ፈከ}}$ የጎነ ሶስት ፈከመ ጎኖች ናቸው።

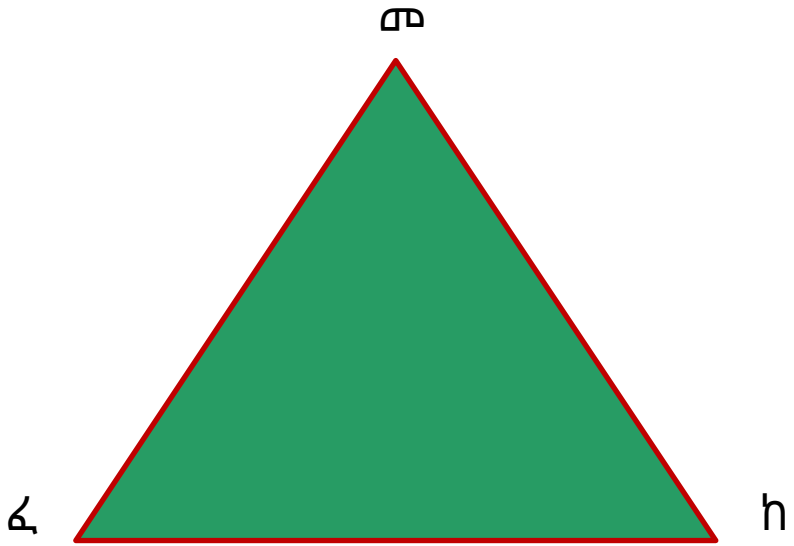

የተቀባው የΔ ፈከመ ወለል ነው።

ጥያቄ (4ደቂቃ)

1)ጎነ ሶስት ሳሉ።

2) የሰለችሁትን ጎነ ሶስት ምስል መሠለ ብለችሁ ሰይሙ።

3)የጎነ ሶስት መሠለ ጎኖችን ዘርዝሩ

4)የጎነ ሶስት መሠለ ዉለል በመቀባት አመልክቱ

መልስ

1)

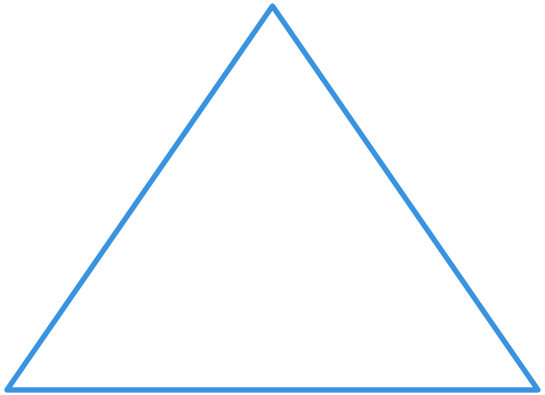

2)

3) $\overline{\text{መሠ}}$ ፣$\overline{\text{ሠለ}}$ እና $\overline{\text{መለ}}$ የ Δ መሠለ ጎኖች ናቸው።

4)

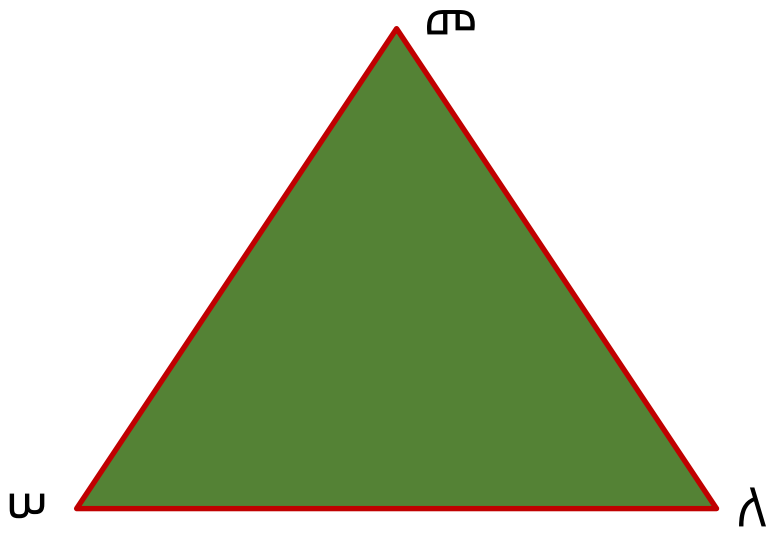

ጎነ አራት ምስል

ጎነ አራት



ይህ ምስል ጎነ አራት በመባል ይጠራል።

ጎነ አራት ምስሎች በመለያያቸው ላይ በሚገኙ ነጥቦች ስያሜ ላይ በመመስረት ይሰየማሉ።ለምሳሌ

በውስን ቀጥታ መስመሮች መነ ፣ተቀ ፣መተ እና ነቀ የተሠራው

ጎነ አራት ቀነመተ ተብሎ ይሰየማል።

1)ይህ ምስል ጎነ አራት ተቀነመ ተብሎ ይጠራል።ጎነ አራት በሌሎች ስያሜያቸው ሊጠራ ይችላል።





ምሳሌ፡- ተቀነመ ፣ መነቀተ ፣ነቀተመ፣በመበል መሠየም ወይም መጥራት ይቻላል።

$\overline{\text{መነ}}$፣ $\overline{\text{ነቀ}}$ ፣$\overline{\text{ቀተ}}$ እና $\overline{\text{ተመ}}$ የ ተቀነመ ጎኖች ናቸው።

ጥያቄ (4 ደቂቃ)

1) ጎነአራት ምስል ሰሉ
2) የሰላችሁትን ጎነ አራት ምስል ሀለመሠ በማለት ሰይሙ
3) የጎነ አራት ምስሉን ወለል በመቀባት አመልክቱ
4)የጎነ አራት ምስሉን ጎኖች ዘርዝሩ

መልስ

1)



2)



3)

4) የ ሀለመሠ ጎኖች $\overline{ሀለ}$፣ $\overline{ለመ}$ ፣$\overline{መሠ}$ እና $\overline{ሀሠ}$ ናቸው ።